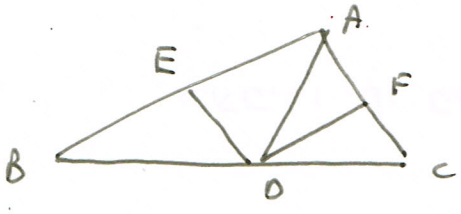

נתון: $ED \parallel AC$
$FD \parallel AB$
$FD = ED$

צ"ל: AD חוצה את זווית A

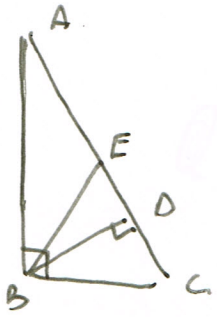

נתון: $\triangle ABC$ שבו זווית $(\angle B = 90°)$
BD גובה ל AC
BE חוצה את $\angle ABD$*

צ"ל: $AC = AE + BC$

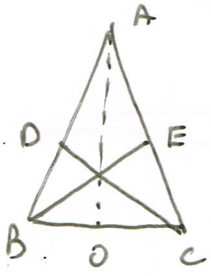

נתון: $\triangle ABC$ משוה
$AE = AD$
OA עובר דרך נק' החיתוך של
BE ו- DC.

צ"ל: $BC \perp OA$

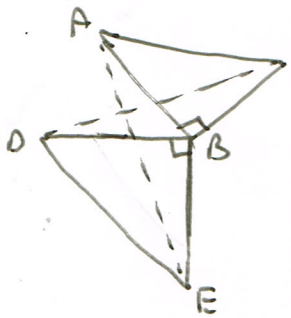

נתון: $\triangle ABC$! $\triangle BED$ שבו זווית נשוה C

צ"ל: א. $AE = DC$
ב. $AE \perp DC$

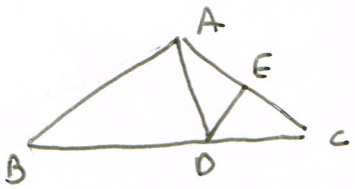

נתון: $\triangle ABC$ משוה $(AB = AC)$
$\angle ABD = \frac{1}{2} \angle ADB$*
$\angle AOE = \angle COD$*

צ"ל: EO תיכון ל- AC במשולש ADC.

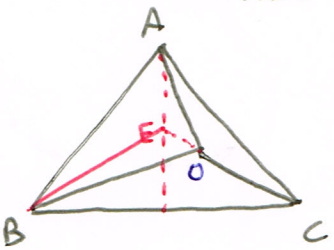

נתון: $\triangle ABC$ משוה $(AB = AC)$
$\angle BAC = 80°$*
$\angle AOC = 10°$*
$\angle ACO = 20°$*

צ"ל: $\angle BOA$*

הערה: OA נמצא בפנים המשולש ואת E כלפי החוץ
של OA המשכים CO.