3.47
6

א)

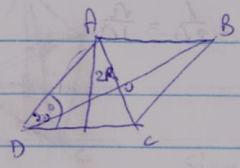

המלבן חסום במעגל לכן אלכסוניו שווים

המעגל שלו הוא בן $2R$

$\frac{2R}{AD} = \sin 30° \rightarrow AD = AB = 4R$

שטח המלבן $4R \cdot 4R \cdot \sin 30° = 8R^2$

ב)

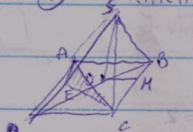

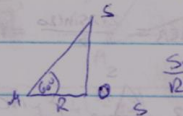

נוסף באיור כי הגובה בין הפאות לבסיס שווה, הגובה

נוסף באיור המשולש הזווית

$\frac{OS}{R} = \tan 60° \rightarrow OS = R\sqrt{3}$

ג)

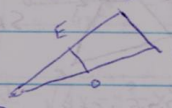

$SB \parallel EC$ לפי הגדרה

O אמצע DB לכן

$EO = \frac{1}{2}SB$

$\triangle SDB$ שווה שוקיים $DS = SB$ לכן המשולש DSB כאשר DB בסיס (ו)

המשולש הוא המשולש שמכיל את (OS)

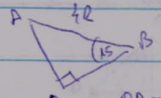

$OB = 4R\cos 15 \quad AO = 4R\sin 15 \rightarrow AC = 8R\sin 15$

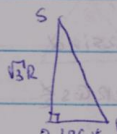

$SB = \sqrt{3R^2 + 16R^2\cos^2 15}$

$EO = \frac{1}{2}SB = \frac{1}{2}\sqrt{3R^2 + 16R^2\cos^2 15}$

$S_{AEC} = \frac{1}{2}AC \cdot EO = \frac{1}{2} \cdot 8R\sin 15 \cdot \frac{1}{2}\sqrt{3R^2 + 16R^2\cos^2 15} = 2R^2 \sin 15 \sqrt{3 + 16\cos^2 15}$

$\cos 30 = 2\cos^2 15 - 1 \rightarrow \frac{\sqrt{3}}{2} + 1 = 2\cos^2 15 \rightarrow \sin 15 = \sqrt{1 - \cos^2 15} = \sqrt{1 - \frac{\sqrt{3}}{4} - \frac{1}{2}} = \frac{1}{2}\sqrt{2 - \sqrt{3}}$

$S_{AEC} = 2R^2 \cdot \frac{1}{2}\sqrt{2 - \sqrt{3}}\sqrt{3 + 4\sqrt{3} + 8} = R^2\sqrt{2 - \sqrt{3}}\sqrt{11 + 4\sqrt{3}} = R^2\sqrt{10 - 3\sqrt{3}}$